# 2019年安顺市初中毕业生学业（升学）考试

# 综合文科试题

特别提示：

1．本卷为综合文科试题单，共25个题，满分120分。其中道德与法治部分13个题占分60分，历史部分12个题占分60分，共8页。考试时间120分钟。

2．考试采用开卷形式，用笔在特制答题卡上答题，不能在本题单上作答。

3．答题时请仔细阅读答题卡上的注意事项，并根据本题单各题的编号在答题卡上找到答题的对应位置，用规定的笔进行填涂和书写。

## 道德与法治部分（60分）

一、单项选择题（每小题 3 分，共 24 分）

1．2018年10月24日，历经十余年研究论证与施工建设之后，我国又一项世界级工程_____正式建成通车。它是世界总体跨度最长、钢结构桥体最长、海底沉管隧道最长的跨海大桥，也是公路建设史上技术最复杂、施工难度最高、工程规模最庞大的桥梁，创造了一系列“世界之最”，可谓名副其实的超级工程。（　　）

A．港深珠大桥　　B．港珠澳大桥　　C．大湾区大桥　　D．深港大桥

2. 中共中央、国务院2019年1月8日上午举行国家科学技术奖励大会。中共中央总书记、国家主席习近平向获得2018年度国家最高科学技术奖的_____和_____颁奖。（　　）

A．刘永坦　钱七虎　　B．刘永坦　程开甲

C．赵忠贤　袁隆平　　D．屠呦呦　程开甲

3. 在我国现有的吸毒者中，青少年吸毒者占60%以上，而这些青少年又多数是中学毕业后 1～3 年里开始吸毒的，他们大多对毒品一知半解，对它缺乏科学、客观的认识，青少年如何才能自觉抵制毒品的诱惑 （　　）

①保持心理防线，切记不要盲从　　②树立正确人生观，远离不良场所

③慎重交友，杜绝攀比和赶时髦　　④养成不吸烟的良好习惯，杜绝不良嗜好

A．①②③　　B．①③④　　C．①②③④　　D．①②④

4．古语说：“千人同心，则得千人之力；万人异心，则无一人之用。”下列说法与古语意思不一致的是（　　）

A．冰冻三尺非一日之寒　　B．一箭易断，十箭难折

C．一人拾柴火不旺，　众人拾柴火焰高　　D．众人种树树成林，大家栽花花满园

5．右图漫画告诉我们（　　）




A．个人不良信用记录不必小题大做

B．人无信而不立，信誉是金

C．个人不良信用记录对个人发展没有影响

D．个人不良信用记录不可避免

6．2019年4月25日，第二届“一带一路”国际合作高峰论坛在北京举行。习近平主席出席论坛开幕式并发表题为《齐心开创共建“一带一路”美好未来》的主旨演讲，强调共建“一带一路”为世界各国发展提供了新的机遇，也为中国开放发展开辟了新天地。呼吁共同开创共建“一带一路”的美好未来，宣布中国将采取一系列重大改革开放的举措。本届论坛举办的意义（　　）

①有利于改善我国的国际环境，维护我国的国家利益，增强国际影响力。

②有利于我国积极融入经济全球化发展的进程，抓住机遇，发展自己。

③有利于加强中国与世界各国特别是“一带一路”沿线国家的交流合作。

④有利于贡献中国智慧和力量，推动世界经济的共同发展，共建人类命运共同体。

A．①②③　　B．①③④　　C．①②④　　D．①②③④

7．霍金21岁患渐冻症，不能说话，全身仅有三根手指能动。尽管在如此艰难的情况下，他依然坚持进行科学研究，提出了宇宙论等理论，成为最伟大的物理学家之一。霍金的事迹告诉我们（　　）

A．对待挫折的态度不同，对人生的影响不同

B．挫折是人生的宝贵财富，挫折越多越好

C．可以通过积极的心理暗示来克服自卑心理

D．挫折产生的原因有主观因素和客观因素

8. 习近平主席在2019年的新年贺词里，把关切的目光投向奋斗者，真诚尊重各种人才，充分激发他们的创新创造活力。倾听基层干部的心声，让敢担当有作为的干部有干劲、有奔头。关爱退役军人，他们为保家卫国作出了贡献。为快递小哥、环卫工人、出租车司机等各行各业的劳动者点赞，鼓舞了千千万万新时代的奋斗者。这启示我们（　　）

①社会职业只有分工不同，没有高低贵贱之分

②我们要平等看待不同职业，尊重不同劳动者

③要尊重劳动，劳动最光荣，劳动者最伟大

④要坚定服务人民的信念和理想，找到实现自我价值与社会需要的结合点

A．①②③　　B．①②④　　C．②③④　　D．①②③④

二、简答题（每小题 6 分，共 18 分）

9. 习近平总书记在十九大开幕式上作了题为《决胜全面建成小康社会 夺取新时代中国特色社会主义伟大胜利》的报告。报告指出，让贫困人口和贫困地区同全国一道进入全面小康社会是我们党的庄严承诺。我们要在继续推动发展的基础上，着力解决好发展不平衡不充分的问题，大力提升发展的质量和效益，更好地满足人民在经济、政治、文化、社会、生态等方面日益增长的需要，更好地推动人的全面发展、社会的全面进步。

结合所学知识回答下列问题：

（1）我国现阶段总体小康有哪些主要特点？（3 分）

（2）请列举三项我国为解决发展不平衡问题所采取的重大举措。（3 分）

10．阅读材料，请完成相关问题。

| 情景 | 权利/义务 |
| --- | --- |
| 情景一　蒙蒙告诉妈妈：“我的日记本在未经我允许的情况下，您不能翻阅”。 | |
| 情景二　夏军外出旅行，在机场过安检时被查出携带违禁物品打火机，在安检人员告知后，他积极配合，按规定安全处置了违禁物品。 | |

（1）上述情景体现了公民的什么权利或义务？（2 分）

（2）结合上述情景分析公民权利与义务的关系。（4 分）

11．2018 年 10 月 11 日下午，在边境扫雷行动中，面对复杂雷场中的不明爆炸物，贵州籍排雷兵杜富国对战友大喊：“你后退，让我来！”就在进一步查明情况时突遇爆炸，英

勇负伤，失去双手和双眼，同组战友安然无恙。杜富国的伤情牵动着全国人民的心，人们通过各种形式向他表达慰问。国防部评价说：杜富国同志面对危险、舍己为人，用实际行动书写了新时代革命军人的使命担当。2019 年 5 月 22 日，中共中央宣传部授予杜富国同志“时代楷模”称号。

（1）“时代楷模”杜富国同志有哪些优秀品质值得我们学习？（3 分）

（2）结合杜富国同志的英雄事迹说一说：做负责任的公民对社会有何积极意义？（3 分）

三、活动探究题（共 8 分）

12．2018 年 12 月 4 日是第五个国家宪法日，八年级（1）班以“如何增强宪法意识，践行宪法精神”为主题开展讨论活动。

（1）在活动中，小胡同学感叹：“真不懂，为什么要学习和宣传宪法？”请你结合所学知识，帮小胡同学答疑解惑，以便让他积极地参与到活动中来。（4 分）

（2）如果你是八年级（1）班的一员，请针对此次活动主题拟写一份发言提纲。（4 分）

四、分析说明题（共 10 分）

**13．材料一** 2018 年 12 月 8 日，庆祝改革开放 40 周年大会在人民大会堂举行。40 年春风化雨，40 年沧海桑田。一个个“春天的故事”，让中华大地春意盎然的画卷不断延展。在中华儿女的眼里,改革开放就是满满的幸福感。

**材料二** 改革开放以后，我们党在深刻总结正反两方面历史经验和科学分析我国基本国情的基础上，明确提出了“走自己的道路，建设中国特色社会主义”的科学命题。40 多年的巨变，印证了走中国特色社会主义道路是正确的选择。

**材料三** 中国特色社会主义进入新时代，意味着近代以来久经磨难的中华民族迎来了从站起来、富起来到强起来的伟大飞跃，迎来了实现中华民族伟大复兴的光明前景。党的十九大为我们描绘了未来发展的蓝图：到 2020 年全面建成小康社会，实现第一个百年奋斗目标；从 2020 年到 2035 年，在全面建成小康社会的基础上，再奋斗十五年，基本实现社会主义现代化；从 2035 年到本世纪中叶，在基本实现现代化的基础上，再奋斗十五年，把我国建成富强民主文明和谐美丽的社会主义现代化强国。

阅读材料，回答问题：

（1）请结合材料一和自己的生活实际，说说你体验到的幸福。（至少两例　2 分）

（2）请结合上述材料，分析我国发生翻天覆地变化的原因。（至少四个方面　4 分）

（3）“青年兴则国兴，青年强则国强”，作为青年一代如何才能担当起新时代赋予的历史使命？（ 4 分）

## 历史部分（60 分）

**一、单项选择题(每小题 3 分，共 24 分)**

1．暑假快到了，安顺市某初中部分同学准备探究红军长征在贵州的历史，打算进行实地考察，请你给他们推荐合适的地点：

A．瑞金、遵义　　B．安顺场、遵义　　C．会宁、遵义　　D．赤水、遵义

2．探寻历史原因和结果的逻辑关系，对历史进行合理解释是我们学习历史的重要方法。下列因果关系对应正确的是：

| 选项 | 原因 | 结果 |
|---|---|---|
| A | 外国资本主义入侵 | 中国走上独立发展的资本主义道路 |
| B | 辛亥革命 | “先生”的称呼取代“老爷”“大人”的称谓 |
| C | 北伐战争 | 抗日根据地建立 |
| D | 国共合作 | 解放战争胜利 |

3．习近平主席说：“一个有希望的民族不能没有英雄，一个有前途的国家不能没有先锋。”2018年4月27日，全国人民代表大会常务委员会通过《中华人民共和国英雄烈士保护法》。下列人物哪些是抗美援朝时期的英雄？

①黄继光　　②董存瑞　　③邱少云　　④张自忠

A．①②　　B．②③　　C．①③　　D．②④

4．“双方同意，各国不论社会制度如何，都应根据……和平共处的原则来处理国与国之间的关系……中国方面重申自己的立场：台湾问题是阻碍中美两国关系正常化的关键

问题；中华人民共和国是中国的唯一合法政府……美国政府对这一立场不提出异议。”对材料理解不正确的是：

A．推动了中国在联合国合法席位的恢复　　B．体现了求同存异的精神

C．美国承认台湾是中国的一部分　　D．台湾问题是影响中美关系的关键问题

5．大学是培养高等专业人才的学校，又是学术研究的场所。12世纪大学的兴起被认为是欧洲中世纪教育“最美好的花朵”。以下哪些属于中世纪欧洲的大学？

①巴黎大学　　②哈佛大学　　③牛津大学　　④博洛尼亚大学

A．①②③　　B．②③④　　C．①③④　　D．①②④

6．下图为国际社会主义运动整体发展趋势示意图，其中①处对应的历史事件是：

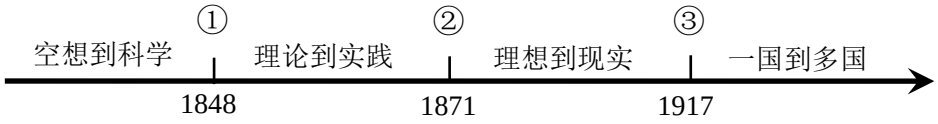


A．英国宪章运动　　B．《共产党宣言》发表

C．法国巴黎公社　　D．俄国十月革命

7．威斯敏斯特大教堂是世界著名的教堂，也是英国历史文化名人的墓地。2018年3月去世的著名科学家霍金被安葬在这里，与长眠于此的英国名人为邻。这些“邻居”中，包括：

A．亚里士多德　　B．贝多芬　　C．巴尔扎克　　D．牛顿

8．下列对右图漫画的解读，错误的是：

A．英国积极推行绥靖政策

B．中国是世界反法西斯的重要力量

C．漫画作者站在反法西斯的正义立场

D．世界进步力量联合打击法西斯势力

二、材料题（第9题9分，第10题9分，共18分）

9．没有共产党就没有新中国，中国共产党诞生于民族危难之际，始终不忘初心，牢记使命，带领全国各族人民砥砺奋进，潜心筑梦。阅读下列材料，回答问题。（9分）

**材料一**　从1840年开始，在炮口的逼迫下，中国蹒跚地走入近代。随后的一百余年里，外国人通过条约“合法”地剥夺榨取、管束控制中国，驱使中国社会脱出常轨，改道变形。

——陈旭麓《近代中国社会的新陈代谢》

**材料二**　南昌起义的枪声，掀开了中华民族从苦难走向振兴的新的一页。从那时起，他们从井冈山一路走来，走过人类历史上绝无仅有的万里长征，走过艰苦卓绝、浴血荣光的14年抗战，走过“将革命进行到底”的解放战争，走过戍边御敌、投身建设改革的辉煌岁月……

——《人民日报》社论

**材料三**　我们党深刻认识到，实现中华民族的伟大复兴，必须推翻压在中国人民头上的帝国主义、封建主义、官僚资本主义三座大山，实现民族独立、人民解放、国家统一、

社会稳定，……必须建立符合我国实际的先进社会制度。……必须合乎时代潮流，顺应人民意愿，勇于改革开放，让中国特色的社会主义事业始终充满奋勇前进的强大动力。

——摘自习近平总书记在中共十九大上的报告

（1）材料一中的“脱出常轨，改道变形”指什么？（1分）写出“在炮口的逼迫下”，19世纪末清政府与侵略者签订的不平等条约。(1分)

（2）“浴血荣光的14年抗战”胜利的决定性因素是什么？（2分）

（3）推翻“三座大山”、建立“符合我国实际的先进社会制度”、开启改革开放历史新时期的标志分别是什么？（3分）

（4）综合上述材料，你认为如何才能实现中华民族伟大复兴的宏伟目标？（要求至少答出两点）（2分）

10．法治发展见证文明进程。法与时移，法治建设随着时代进步不断完善。阅读下列材料，回答问题。（9分）

**材料一**　17世纪英国“国王”与“议会”关系示意图




**材料二**　“美国法治建设”结构示意图（局部）

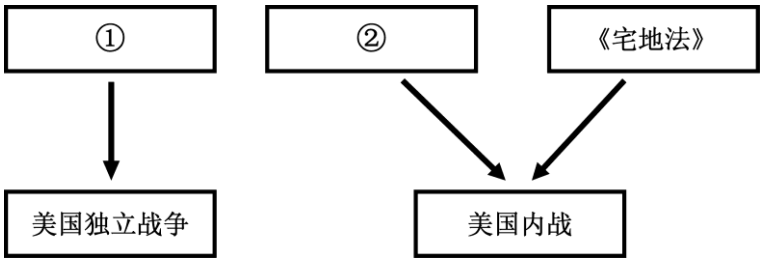


**材料三**　伏尔泰曾说，在法国旅行需要经常更换法律，就像经常更换马匹一样。法国直到1804年以后才成为一个法律上的整体……

**材料四**　2018年3月11日，第十三届全国人民代表大会第一次会议通过《中华人民共和国宪法修正案》，其中把“健全社会主义法制”修改为“健全社会主义法治”，一字之改，是我们党依法治国理念和方式的新飞跃。

——《中国纪检监察报》

（1）对比材料一中的图A和图B，国王和议会的权力变化是通过哪部法律文献得以实现的？

（1分）

（2）材料二是某同学构建的有关“美国法治建设”的结构示意图（局部），请你帮助他补充完整，写出① ②处对应的法律文献名称。（2分）

（3）根据材料三并结合所学知识回答：“1804年”相关的法律文献是什么？（1分）该文献体现了什么原则？（1分）

（4）新中国成立以来，我国的社会主义法律体系经历了从无到有、逐步完善的发展过程。新中国成立初期起了临时宪法作用的文献是什么？（1分）我国第一部社会主义类型的宪法是在哪次会议上通过的？（1分）

（5）从以上各国的法治建设历程中，你得出哪些认识？（2分）

三、探究题（第11题9分，第12题9分，共18分）

11.“青年兴则国家兴，青年强则国家强”。2019年4月30日上午，纪念五四运动100周年大会在人民大会堂举行，习近平总书记出席大会并发表重要讲话，他号召新时代中国青年“要珍惜这个时代，担负时代使命，在担当中历练，在尽责中成长……为实现中华民族伟大复兴而奋斗”。让我们回到100年前，一起追寻那段不平凡的历史。

**【走进五四】**

**材料一** 五四运动中学生提出“外争主权，内除国贼”“废除二十一条”“拒绝在和约上签字”“誓死力争，还我青岛”等口号。

（1）材料一中哪一句口号最能完整体现五四运动性质？（1分）五四运动实现了哪些直接目标？请举出一例。（1分）

**材料二** 有学者指出，“五四运动是第一次历史巨变的补课，又是第二次历史巨变的起点”。

（2）材料二中“起点”指什么？（1分）

**【五四之由】**

**材料三** 如右图，漫画《玩弄于股掌之上》由马星驰创作于1919年2月（1919年1月巴黎和会召开）。

（3）材料三漫画中“穿和服的人”和“坐在这位身着和服的人身上的人”分别指的是日本、中国北洋政府，联系巴黎和会对华决定，请指出漫画反映的主要史实。（2分）

（4）请写出操纵巴黎和会的三巨头。（1分）巴黎和会主要签定了什么条约？（1分）

**【五四筑梦】**“实现中华民族伟大复兴，就是中华民族近代以来最伟大的梦想。”

（5）五四运动一百多年后中国人民将实现第一个“百年目标”，请问第一个百年目标是什么？（1分）

（6）实现中国梦，必须弘扬中国精神，其中我们要弘扬的“五四精神”是什么？（1分）

12．20世纪八九十年代以来，国家之间的经济联系日益紧密，世界经济全球化的趋势加强，某学校学生邀请你一起对“经济全球化”这一课题进行探究。阅读以下材料，请回答:

【全球化溯源】公元1500年前后，真正的“世界历史”开始了，“从此，国别和种族为主的地域性历史开始演变为真正意义上的统一的世界历史。……人类社会终于迎来了近代的曙光。”

（1）公元1500前后让世界开始连为一个整体的重大事件是什么？（1分）

（2）早期殖民扩张客观上促进了世界经济的联系，最早进行殖民的国家是哪两个国家？（1分）

【科技与全球化】我们生活在一个科学技术发展日新月异的时代，……科技革命改变了人类和世界，现代化带动了整体世界的形成和发展。第一次工业革命是工业化的起点，……在第三次科技革命的推动下，世界各国的相互联系和依赖日益紧密，全球化日益成为人们关注的焦点。

——《从全球化的角度看三次科技革命》

（3）19世纪上半期铁路时代的到来对世界经济联系产生什么影响？（2分）19世纪70年代开始的科技革命使人类社会进入什么时代？（1分）20世纪90年代随着科技的发展人类又进入什么时代？（1分）

【感悟全球化】在2018年达沃斯论坛上，中国企业家马云呼吁抵制贸易保护主义，“没有任何人可以制止全球化，没有人可以制止贸易，如果贸易停止，战争就会爆发，贸易是解决战争的方式，而不是引起战争的原因”。

（4）有人说：2018年以来美国对中国实施“贸易战”，违背了世界贸易组织遵循的原则，你同意吗？为什么？（3分）